Pakete sind verschieden schwer



leichter als 3 kg
schwerer als 2 kg

zwischen 2 und 3 kg



schwerer als 1 kg
leichter als 2 kg

zwischen .....

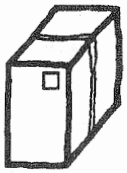

schwerer als 5 kg
leichter als 6 kg

.....

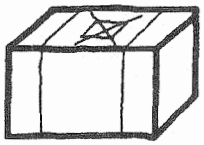

leichter als 10 kg
schwerer als 9 kg

.....

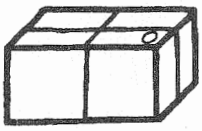

leichter als 7 kg
schwerer als 6 kg

.....

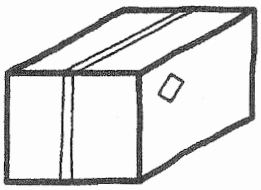

schwerer als 10 kg
leichter als 11 kg

.....

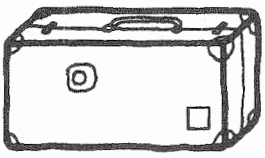

leichter als 8 kg
schwerer als 7 kg

.....

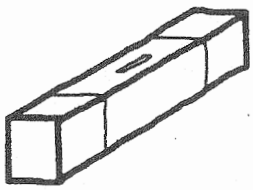

schwerer als 4 kg
leichter als 5 kg

.....

HLV Heilpädagogischer Lehrmittel-Verlag AG CH-4532 Feldbrunnen

Wieviel bleibt hier übrig?

Rest ..... Rest .....

40 kg - 6 kg - 5 kg - 2 kg - 3 kg = ...
30 kg - 5 kg - 4 kg - 6 kg - 7 kg = ...
20 kg - 2 kg - 3 kg - 9 kg - 2 kg = ...
50 kg - 5 kg -10 kg - 8 kg - 2 kg = ...

Wir zählen alles, was wir herausnehmen zusammen und ergänzen.

6 kg + 5 kg + 2 kg + 3 kg = ... kg bis 40 kg sind es .....
5 kg + 4 kg + 6 kg + 7 kg = ... kg bis 30 kg sind es .....
2 kg + 3 kg + 9 kg + 2 kg = ... kg bis 20 kg sind es .....
5 kg +10 kg + 8 kg + 2 kg = ... kg bis 50 kg sind es .....

Wir rechnen von unten nach oben.

30 kg bis	40 kg bis	20 kg bis	50 kg bis	40 kg bis
4 kg	10 kg	6 kg	12 kg	8 kg
8 kg	8 kg	4 kg	8 kg	9 kg
2 kg	5 kg	3 kg	14 kg	11 kg
9 kg	9 kg	4 kg	6 kg	10 kg
.....	.....	.....	.....	.....

Wir legen 1 kg zusammen

Unsere Gewichtsteine dazu:

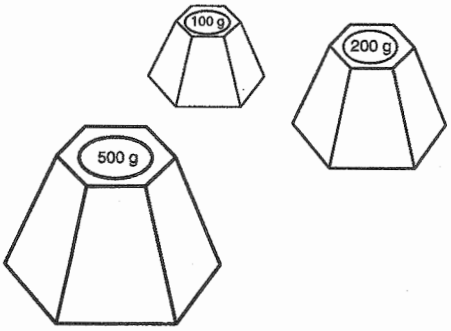

..... g

..... g

..... g

..... g



---------- g + ---------- g + ---------- g + ---------- g = 1 kg

-------- g + -------- g + -------- g + -------- g + -------- g = 1 kg

oder:

---------- = 1 kg

Für 1 kg braucht es ..... g

..... g = 1 kg

Wir untersuchen Gewichtsangaben



Suche auf einer Büchse die Gewichtsangabe!

Da steht .....

Du stellst diese Büchse nachher auf die Waage.

Sie zeigt ..... an.

Was sagst du dazu?

.....

.....

.....

Mache eine Zusammenstellung!

..... bedeutet ..... mit .....

..... bedeutet ..... ohne .....

..... bedeutet .....

NETTO	BRUTTO	TARA	VERPACKUNG
Verpackung	Verpackung	Inhalt	Inhalt

Ausschneiden und ins richtige Feld kleben!